Le message de la rivière

Plie le bas de la feuille vers l'arrière. Déplie-le pour vérifier tes réponses.

1. Lis puis réponds aux questions.

Après la pluie, la rivière débordait sur le chemin. Amine s'arrêta devant l'eau boueuse. Sur l'autre rive, son chien aboyait près du pont. Il décida de faire le détour par les hauteurs pour le rejoindre sans traverser le courant.

Pourquoi Amine ne prend-il pas le chemin habituel ?

Où se trouve son chien ?

Que décide de faire Amine ?

2. Classe chaque mot du texte : nom, adjectif, verbe ou pronom personnel.

rivière

boueuse

débordait

Il

3. Mots mêlés

Entoure les mots dans ces sens → ↓ ↘ ↙

	A	B	C	D	E	F	G	H
1	P	A	Q	U	I	N	Z	E
2	S	O	I	X	A	N	T	E
3	E	B	I	R	Q	G	S	N
4	I	I	F	Z	B	D	B	W
5	Z	Q	G	I	B	J	F	D
6	E	E	O	K	D	D	G	U
7	Q	U	A	R	A	N	T	E
8	K	V	I	N	G	T	P	Q

Résoudre des problèmes de proportionnalité

QUINZE

SEIZE

VINGT

QUARANTE

SOIXANTE

4. Mots croisés

Lis les indices. Une lettre par case, sans accent.



1↓ Conjugue « aller » avec « je » au présent de l'indicatif.

2→ Conjugue « prendre » avec « tu » à l'imparfait.

3↓ Conjugue « être » avec « ils » à l'imparfait.

4→ Conjugue « faire » avec « nous » au présent de l'indicatif.

5. Coloriage magique

Calcule. Colorie selon le résultat.

54÷2	26+3	22+5	27+2	31−4
27+2	58÷2	27+2	24+5	22+7
34−5	58÷2	28+3	24+5	58÷2
35−8	58÷2	58÷2	24+5	25+2
54÷2	25+2	28+1	19+8	30−3

Code

- 27 = blanc
- 29 = bleu
- 31 = jaune

Au crayon, hachure le bleu et fais des points pour le jaune.

6. Labyrinthe

Entre par la gauche. Sors à droite sans traverser un mur.

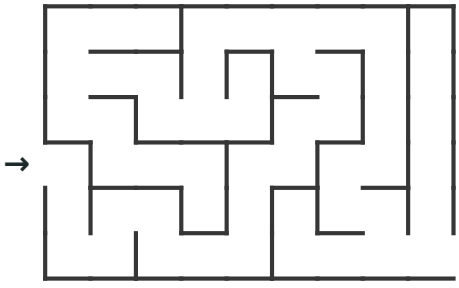

Je vérifie mes réponses

1. La rivière déborde ; sur l'autre rive, près du pont ; il passe par les hauteurs.

2. Nom ; adjectif ; verbe ; pronom personnel.

3. Mots mêlés

P	A	Q	U	I	N	Z	E
S	O	I	X	A	N	T	E
E	B	I	R	Q	G	S	N
I	I	F	Z	B	D	B	W
Z	Q	G	I	B	J	F	D
E	E	O	K	D	D	G	U
Q	U	A	R	A	N	T	E
K	V	I	N	G	T	P	Q

4. Mots croisés

				V				
P	R	E	N	A	I	S		
		T		I				
	F	A	I	S	O	N	S	
		I						
		E						
		N						
		T						

5. Cœur

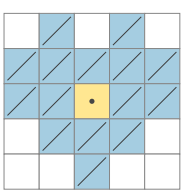

6. Chemin

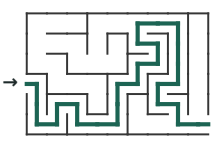

Fractions et partages

Plie le bas de la feuille vers l'arrière. Déplie-le pour vérifier tes réponses.

1. Complète les égalités et compare avec <, > ou =.

1/2 = .../8

3/4 = .../12

5/6 ... 4/6

3/4 ... 2/3

2. Résous les problèmes.

Sur 24 élèves, les 3/4 mangent à la cantine. Combien cela fait-il d'élèves ?

Une randonnée de 12 km est parcourue aux 2/3. Combien de kilomètres reste-t-il ?

3. Mots mêlés

Entoure les mots dans ces sens → ↓ ↘ ↙

	A	B	C	D	E	F	G	H
1	V	K	I	G	Z	T	K	X
2	L	É	G	E	N	D	E	B
3	C	R	I	T	I	Q	U	E
4	C	R	V	X	W	P	H	W
5	A	W	J	I	L	F	A	L
6	D	E	K	E	X	S	D	M
7	R	E	T	O	U	C	H	E
8	E	R	E	F	L	E	T	X

Lire et légender une photographie

CRITIQUE
RETOUCHE
CADRE
REFLET
LÉGENDE

4. Mots croisés

Lis les indices. Une lettre par case, sans accent.



1↓ Vaisseau dans lequel le sang s'éloigne du cœur.

2↓ Liquide rouge qui transporte des gaz et des nutriments dans le corps.

3→ Nom commun à une artère, une veine et un capillaire sanguin.

4→ Organe musculaire dont les battements propulsent le sang.

5. Coloriage magique

Calcule. Colorie selon le résultat.

27+1	56÷2	60÷2	21+7	2×14
30−2	23+7	35−5	60÷2	56÷2
2×15	2×15	36−6	33−3	26+4
30−2	38−8	37−5	60÷2	2×14
31−3	2×15	2×16	22+8	20+8

Code

- 28 = blanc
- 30 = bleu
- 32 = jaune

Au crayon, hachure le bleu et fais des points pour le jaune.

6. Mini-sudoku

Place 1, 2, 3 et 4 une fois par ligne, par colonne et par carré de quatre cases.

2		4	3
	2		
			4

Je vérifie mes réponses

1. 1/2 = 4/8 ; 3/4 = 9/12 ; 5/6 > 4/6 ; 3/4 > 2/3 (9/12 > 8/12).

2. 24 ÷ 4 × 3 = 18 élèves. 12 − (12 ÷ 3 × 2) = 4 km.

3. Mots mêlés

V	K	I	G	Z	T	K	X
L	É	G	E	N	D	E	B
C	R	I	T	I	Q	U	E
C	R	V	X	W	P	H	W
A	W	J	I	L	F	A	L
D	E	K	E	X	S	D	M
R	E	T	O	U	C	H	E
E	R	E	F	L	E	T	X

4. Mots croisés



5. Maison

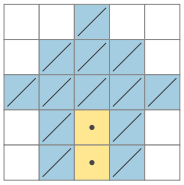

6. Sudoku

2	1	4	3
3	4	1	2
4	2	3	1
1	3	2	4

Document généré par outilspourlaclasse.fr — site indépendant de l'Éducation nationale

Qui possède quel objet ?

Plie le bas de la feuille vers l'arrière. Déplie-le pour vérifier tes réponses.

1. Attribue un objet différent à chaque enfant et explique.

Léa, Sami et Zoé possèdent chacun un objet : une règle, un compas ou une gomme. Léa n'a ni la règle ni la gomme. Sami n'a pas la gomme.

2. Complète en suivant la règle indiquée.

Carrés de 1, 2, 3… : 1 ; 4 ; 9 ; 16 ; … ; …

Double chaque nombre : 3 ; 6 ; 12 ; 24 ; … ; …

3. Mots mêlés

Entoure les mots dans ces sens → ↓ ↘ ↙

	A	B	C	D	E	F	G	H
1	H	X	C	U	M	X	Y	K
2	E	T	O	N	U	U	R	Q
3	N	S	M	N	L	J	E	I
4	T	R	M	Z	T	Z	S	X
5	I	E	U	R	I	G	T	P
6	E	A	N	Z	P	M	E	A
7	R	B	M	P	L	Q	B	I
8	Y	C	S	L	E	Z	W	R

Diviseurs, multiples et division

RESTE

MULTIPLE

PAIR

COMMUN

ENTIER

4. Mots croisés

Lis les indices. Une lettre par case, sans accent.



1↓ Segment qui joint deux points d'un cercle et passe par son centre.

2↓ Nom du segment qui relie le centre d'un cercle à un point de ce cercle.

3→ Un cercle de centre O passe par A. La longueur OA est la … entre O et A.

4→ Point fixe où l'on pose la pointe du compas pour tracer un cercle.

5. Coloriage magique

Calcule. Colorie selon le résultat.

18+6	18+6	32−6	2×12	2×12
29−5	2×13	2×13	52÷2	23+1
2×13	23+3	52÷2	19+7	2×13
18+6	27−3	26+2	27−3	48÷2
16+8	48÷2	26+2	32−8	48÷2

Code

- 24 = blanc
- 26 = bleu
- 28 = jaune

Au crayon, hachure le bleu et fais des points pour le jaune.

6. Labyrinthe

Entre par la gauche. Sors à droite sans traverser un mur.

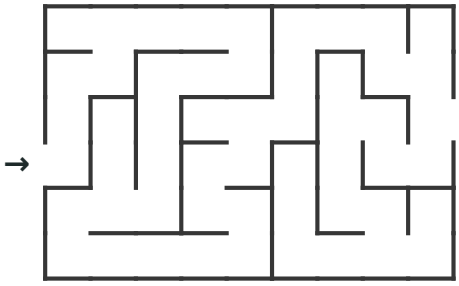

Je vérifie mes réponses

1. Léa : compas ; Sami : règle ; Zoé : gomme.

2. 25 et 36 ; 48 et 96.

3. Mots mêlés

H	X	C	U	M	X	Y	K
E	T	O	N	U	U	R	Q
N	S	M	N	L	J	E	I
T	R	M	Z	T	Z	S	X
I	E	U	R	I	G	T	P
E	A	N	Z	P	M	E	A
R	B	M	P	L	Q	B	I
Y	C	S	L	E	Z	W	R

4. Mots croisés

							D	
							I	
							A	
				R			M	
D	I	S	T	A	N	C	E	
				Y			T	
				O			R	
		C	E	N	T	R	E	

5. Arbre

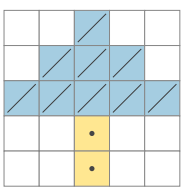

6. Chemin

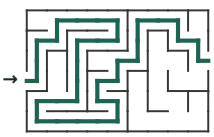

Économiser l'eau

Plie le bas de la feuille vers l'arrière. Déplie-le pour vérifier tes réponses.

1. Lis puis réponds.

Un robinet ouvert laisse couler 6 litres par minute. Pour se brosser les dents, Lina le laisse ouvert 2 minutes. Samir le ferme pendant le brossage : il utilise seulement 1 litre.

Combien de litres Lina utilise-t-elle ?

Combien de litres Samir économise-t-il par rapport à Lina ?

2. Calcule en utilisant les données du texte.

Combien de litres coulent en 3 minutes ?

Combien de litres Lina utiliserait-elle en 5 brossages identiques ?

3. Mots mêlés

Entoure les mots dans ces sens → ↓ ↘ ↙

	A	B	C	D	E	F	G	H
1	B	B	F	S	X	I	E	K
2	H	R	B	C	B	I	A	U
3	F	A	V	H	D	S	R	T
4	G	N	Z	A	W	S	B	I
5	L	C	O	N	J	U	R	R
6	A	H	U	C	W	E	E	A
7	K	E	Q	E	P	D	Y	G
8	D	I	M	S	P	S	Q	E

Dénombrer les issues d'un tirage

ISSUE

ARBRE

BRANCHE

CHANCES

TIRAGE

4. Mots croisés

Lis les indices. Une lettre par case, sans accent.

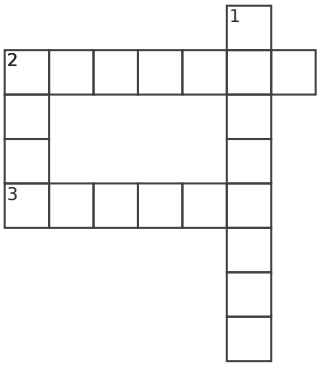

1↓ Conjugue « finir » avec « vous » au présent de l'indicatif.

2→ Conjugue « vouloir » avec « elle » à l'imparfait.

2↓ Conjugue « aller » avec « je » au présent de l'indicatif.

3→ Conjugue « être » avec « nous » au présent de l'indicatif.

5. Coloriage magique

Calcule. Colorie selon le résultat.

23+2	28−3	28−1	50÷2	17+8
28−3	24+3	22+5	18+7	30−5
21+6	54÷2	24+3	26+3	50÷2
58÷2	28+1	26+3	58÷2	58÷2
20+5	21+8	25+4	35−6	32−7

Code

- 25 = blanc
- 27 = bleu
- 29 = jaune

Au crayon, hachure le bleu et fais des points pour le jaune.

6. Mini-sudoku

Place 1, 2, 3 et 4 une fois par ligne, par colonne et par carré de quatre cases.

		4	1
	1	2	4

Je vérifie mes réponses

1. 12 litres ; 11 litres.
2. 18 litres ; 60 litres.

3. Mots mêlés

B	B	F	S	X	I	E	K
H	R	B	C	B	I	A	U
F	A	V	H	D	S	R	T
G	N	Z	A	W	S	B	I
L	C	O	N	J	U	R	R
A	H	U	C	W	E	E	A
K	E	Q	E	P	D	Y	G
D	I	M	S	P	S	Q	E

4. Mots croisés

						F	
V	O	U	L	A	I	T	
A						N	
I						I	
S	O	M	M	E	S		
					S		
					E		
					Z		

5. Voilier

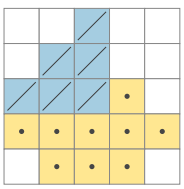

6. Sudoku

1	4	3	2
2	3	4	1
3	1	2	4
4	2	1	3

Document généré par outilspourlaclasse.fr — site indépendant de l'Éducation nationale