La cabane du vieux chêne

Plie le bas de la feuille vers l'arrière. Déplie-le pour vérifier tes réponses.

1. Lis puis réponds.

Au fond du jardin, Maël découvre une cabane cachée derrière un vieux chêne. La porte grince, mais à l'intérieur il trouve une carte et une lampe éteinte.

Où se trouve la cabane ?

Quels objets Maël trouve-t-il ?

Pourquoi peut-on dire que la cabane était cachée ?

2. Réécris au pluriel.

Le vieux chêne cache une cabane.

La porte grince dans le jardin.

3. Mots mêlés

Entoure les mots dans ces sens → ↓ ↘ ↙

	A	B	C	D	E	F	G	H
1	L	I	T	T	O	R	A	L
2	P	T	O	R	R	E	N	T
3	I	L	J	W	Y	V	W	N
4	M	B	D	U	I	S	Z	M
5	Z	D	U	N	E	T	P	T
6	F	A	L	A	I	S	E	R
7	C	T	D	J	W	V	Q	A
8	J	C	O	L	L	I	N	E

Les paysages

FALAISE

COLLINE

DUNE

LITTORAL

TORRENT

4. Mots croisés

Lis les indices. Une lettre par case, sans accent.



1↓ Creux souvent circulaire qui s'ouvre au sommet d'un volcan.

2→ Très fins fragments de roche projetés dans les airs.

3→ Épisode durant lequel un volcan rejette des matériaux à la surface.

4→ Relief volcanique qui se rétrécit de sa base vers son sommet.

5. Coloriage magique

Calcule. Colorie selon le résultat.

2×9	10+8	2×10	36÷2	13+5
20−2	21−1	12+8	27−7	25−7
23−5	20−2	2×10	36÷2	16+2
2×10	21−1	2×10	40÷2	40÷2
36÷2	36÷2	23−1	2×9	23−5

Code

- 18 = blanc
- 20 = bleu
- 22 = jaune

Au crayon, hachure le bleu et fais des points pour le jaune.

6. Labyrinthe

Entre par la gauche. Sors à droite sans traverser un mur.

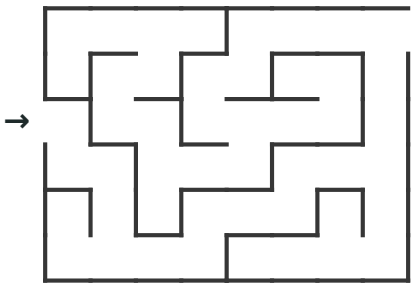

Je vérifie mes réponses

1. Au fond du jardin, derrière un chêne ; une carte et une lampe ; elle était derrière l'arbre.

2. Les vieux chênes cachent des cabanes. Les portes grincent dans les jardins.

3. Mots mêlés

L	I	T	T	O	R	A	L
P	T	O	R	R	E	N	T
I	L	J	W	Y	V	W	N
M	B	D	U	I	S	Z	M
Z	D	U	N	E	T	P	T
F	A	L	A	I	S	E	R
C	T	D	J	W	V	Q	A
J	C	O	L	L	I	N	E

4. Mots croisés

				C			
C	E	N	D	R	E	S	
				A			
E	R	U	P	T	I	O	N
				E			
				R			
		C	O	N	E		

5. Sapin

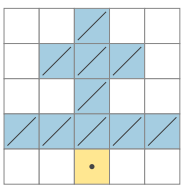

6. Chemin

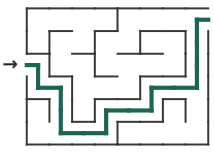

Grands nombres et calculs

Plie le bas de la feuille vers l'arrière. Déplie-le pour vérifier tes réponses.

1. Calcule.

2 456 + 3 789

8 000 − 2 745

36 × 4

84 ÷ 7

2. Résous.

Une école possède 1 250 livres et en reçoit 375. Combien en a-t-elle ?

On répartit 96 feuilles également dans 8 pochettes. Combien par pochette ?

3. Mots mêlés

Entoure les mots dans ces sens → ↓ ↘ ↙

	A	B	C	D	E	F	G	H
1	Q	C	P	V	E	D	P	D
2	V	X	E	V	H	E	S	S
3	A	N	N	E	C	T	A	R
4	T	E	F	Q	R	I	Z	F
5	A	B	E	T	I	V	O	T
6	B	O	U	R	D	O	N	Z
7	A	B	E	I	L	L	E	H
8	P	É	T	A	L	E	M	I

La pollinisation

NECTAR

ABEILLE

BOURDON

PÉTALE

VENT

4. Mots croisés

Lis les indices. Une lettre par case, sans accent.

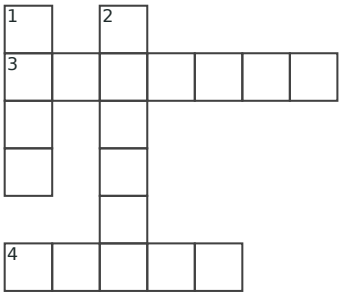

1↓ Elle fournit de l'énergie électrique et possède deux bornes différentes.

2↓ Il transforme l'énergie électrique en mouvement.

3→ Matériau qui laisse très difficilement passer le courant.

4→ Point de connexion d'un composant électrique.

5. Coloriage magique

Calcule. Colorie selon le résultat.

18+1	15+6	42÷2	42÷2	13+6
42÷2	42÷2	46÷2	18+3	42÷2
42÷2	42÷2	14+7	27−6	13+8
12+7	27−8	46÷2	38÷2	38÷2
24−5	38÷2	28−5	11+8	14+5

Code

- ☐ 19 = blanc
- ▨ 21 = bleu
- ▪ 23 = jaune

Au crayon, hachure le bleu et fais des points pour le jaune.

6. Mini-sudoku

Place 1, 2, 3 et 4 une fois par ligne, par colonne et par carré de quatre cases.

2			
4		3	2
		4	3
	4	2	

Je vérifie mes réponses

1. 6 245 ; 5 255 ; 144 ; 12.

2. 1 625 livres ; 12 feuilles.

3. Mots mêlés

Q	C	P	V	E	D	P	D
V	X	E	V	H	E	S	S
A	N	N	E	C	T	A	R
T	E	F	Q	R	I	Z	F
A	B	E	T	I	V	O	T
B	O	U	R	D	O	N	Z
A	B	E	I	L	L	E	H
P	É	T	A	L	E	M	I

4. Mots croisés

P		M				
I	S	O	L	A	N	T
L		T				
E		E				
		U				
B	O	R	N	E		

5. Champignon

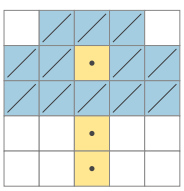

6. Sudoku

2	3	1	4
4	1	3	2
1	2	4	3
3	4	2	1

Document généré par outilspourlaclasse.fr — site indépendant de l'Éducation nationale

Enquête au musée

Plie le bas de la feuille vers l'arrière. Déplie-le pour vérifier tes réponses.

1. Déduis l'ordre.

Trois tableaux, A, B et C, sont alignés. A est à gauche de B. C est à gauche de A.

Donne leur ordre de gauche à droite.

Quel tableau est au milieu ?

2. Complète les suites.

5, 10, 20, 40, …, …

150, 140, 130, …, …

1, 4, 9, 16, …, …

3. Mots mêlés

Entoure les mots dans ces sens → ↓ ↘ ↙

	A	B	C	D	E	F	G	H
1	F	T	D	O	U	B	L	E
2	F	T	R	I	L	J	V	J
3	A	S	E	I	U	Y	S	V
4	C	M	O	R	P	W	D	H
5	T	R	S	M	M	L	T	D
6	E	V	U	D	M	E	E	R
7	U	J	T	W	L	E	W	Z
8	R	Q	T	K	S	S	B	W

Les mots des quatre opérations

FACTEUR

TERME

DOUBLE

TRIPLE

SOMME

4. Mots croisés

Lis les indices. Une lettre par case, sans accent.



1↓ Un groupe de mille unités forme un … .

2→ Dans 483, quel est le rang du chiffre 3 ? Réponds au singulier.

3→ Dix dizaines en forment une. Dans 483, c'est le rang du chiffre 4.

4→ 472 est un … à trois chiffres.

5. Coloriage magique

Calcule. Colorie selon le résultat.

23−1	2×11	28−8	44÷2	19+3
18+4	44÷2	31−7	19+3	44÷2
2×10	27−5	48÷2	2×11	12+8
2×11	30−8	16+8	44÷2	18+4
23−1	40÷2	40÷2	18+2	2×11

Code

- 20 = blanc
- 22 = bleu
- 24 = jaune

Au crayon, hachure le bleu et fais des points pour le jaune.

6. Labyrinthe

Entre par la gauche. Sors à droite sans traverser un mur.

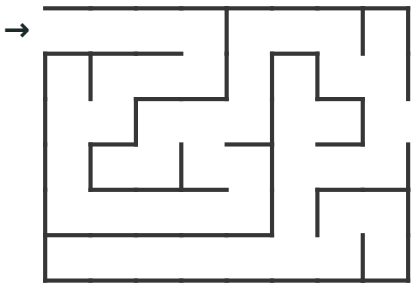

Je vérifie mes réponses

1. C, A, B ; A.

2. 80, 160 ; 120, 110 ; 25, 36 (carrés successifs).

3. Mots mêlés



4. Mots croisés



5. Papillon

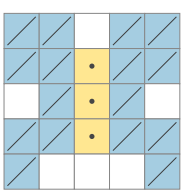

6. Chemin



Inventer une île

Plie le bas de la feuille vers l'arrière. Déplie-le pour vérifier tes réponses.

1. Dessine une île imaginaire vue du dessus.

Place une rivière, un pont sur la rivière, une forêt et un village. Écris le nom de chaque élément.

2. Décris ton île en deux phrases.

Indique où se trouve le village et comment traverser la rivière.

3. Mots mêlés

Entoure les mots dans ces sens → ↓ ↘ ↙

	A	B	C	D	E	F	G	H
1	I	X	B	D	N	I	M	K
2	R	O	B	I	N	E	T	T
3	H	Y	P	O	M	P	E	H
4	P	O	T	A	B	L	E	O
5	B	D	B	I	D	O	N	K
6	P	U	I	T	S	R	N	S
7	Y	I	E	H	P	V	N	A
8	D	Z	T	C	X	Z	M	S

Comment l'eau arrive-t-elle aux habitants ?

POMPE

BIDON

POTABLE

ROBINET

PUITS

4. Mots croisés

Lis les indices. Une lettre par case, sans accent.

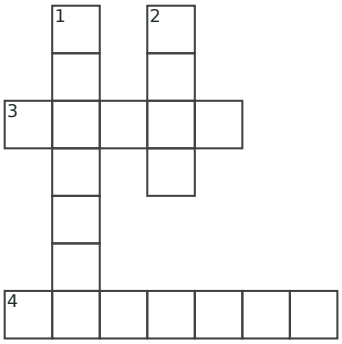

1↓ Au futur simple, conjugue « venir ». À midi, Maya … nous chercher.

2↓ Au futur simple, conjugue « aller ». Samedi prochain, j'… au marché.

3→ Au futur simple, conjugue « faire ». Demain, tu … le premier dessin.

4→ Au futur simple, conjugue « bâtir ». Sur ce terrain, vous … une cabane.

5. Coloriage magique

Calcule. Colorie selon le résultat.

42÷2	19+4	30−7	21+2	42÷2
13+8	20+3	24−3	24−1	42÷2
42÷2	26−3	22+1	15+8	42÷2
24−3	42÷2	31−6	42÷2	26−5
22−1	42÷2	19+6	18+7	15+6

Code

- 21 = blanc
- 23 = bleu
- 25 = jaune

Au crayon, hachure le bleu et fais des points pour le jaune.

6. Mini-sudoku

Place 1, 2, 3 et 4 une fois par ligne, par colonne et par carré de quatre cases.

4	1		2
	3		
	4	2	
1		4	

Je vérifie mes réponses

1. Je vois la rivière, le pont, la forêt et le village. Chaque élément est nommé.

2. Je vois deux phrases : une situe le village, l'autre indique de passer par le pont.

3. Mots mêlés

I	X	B	D	N	I	M	K
R	O	B	I	N	E	T	T
H	Y	P	O	M	P	E	H
P	O	T	A	B	L	E	O
B	D	B	I	D	O	N	K
P	U	I	T	S	R	N	S
Y	I	E	H	P	V	N	A
D	Z	T	C	X	Z	M	S

4. Mots croisés

	V			I		
	I			R		
F	E	R	A	S		
	N			I		
	D					
	R					
B	A	T	I	R	E	Z

5. Clé

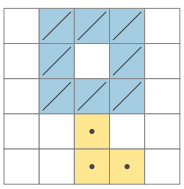

6. Sudoku

4	1	3	2
2	3	1	4
3	4	2	1
1	2	4	3