La cabane du vieux chêne

Plie le bas de la feuille vers l'arrière. Déplie-le pour vérifier tes réponses.

1. Lis puis réponds.

Au fond du jardin, Maël découvre une cabane cachée derrière un vieux chêne. La porte grince, mais à l'intérieur il trouve une carte et une lampe éteinte.

Où se trouve la cabane ?

Quels objets Maël trouve-t-il ?

Pourquoi peut-on dire que la cabane était cachée ?

2. Réécris au pluriel.

Le vieux chêne cache une cabane.

La porte grince dans le jardin.

3. Mots mêlés

Entoure les mots dans ces sens → ↓ ↘ ↙

	A	B	C	D	E	F	G	H
1	L	I	T	T	O	R	A	L
2	P	T	O	R	R	E	N	T
3	I	L	J	W	Y	V	W	N
4	M	B	D	U	I	S	Z	M
5	Z	D	U	N	E	T	P	T
6	F	A	L	A	I	S	E	R
7	C	T	D	J	W	V	Q	A
8	J	C	O	L	L	I	N	E

Les paysages

FALAISE

COLLINE

DUNE

LITTORAL

TORRENT

4. Mots croisés

Lis les indices. Une lettre par case, sans accent.



1↓ Creux souvent circulaire qui s'ouvre au sommet d'un volcan.

2→ Très fins fragments de roche projetés dans les airs.

3→ Épisode durant lequel un volcan rejette des matériaux à la surface.

4→ Relief volcanique qui se rétrécit de sa base vers son sommet.

5. Coloriage magique

Calcule. Colorie selon le résultat.

2×9	10+8	2×10	36÷2	13+5
20−2	21−1	12+8	27−7	25−7
23−5	20−2	2×10	36÷2	16+2
2×10	21−1	2×10	40÷2	40÷2
36÷2	36÷2	23−1	2×9	23−5

Code

- 18 = blanc
- 20 = bleu
- 22 = jaune

Au crayon, hachure le bleu et fais des points pour le jaune.

6. Labyrinthe

Entre par la gauche. Sors à droite sans traverser un mur.

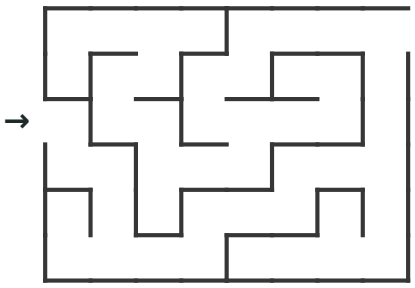

Je vérifie mes réponses

1. Au fond du jardin, derrière un chêne ; une carte et une lampe ; elle était derrière l'arbre.

2. Les vieux chênes cachent des cabanes. Les portes grincent dans les jardins.

3. Mots mêlés

L	I	T	T	O	R	A	L
P	T	O	R	R	E	N	T
I	L	J	W	Y	V	W	N
M	B	D	U	I	S	Z	M
Z	D	U	N	E	T	P	T
F	A	L	A	I	S	E	R
C	T	D	J	W	V	Q	A
J	C	O	L	L	I	N	E

4. Mots croisés

				C			
C	E	N	D	R	E	S	
				A			
E	R	U	P	T	I	O	N
				E			
				R			
		C	O	N	E		

5. Sapin

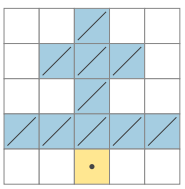

6. Chemin

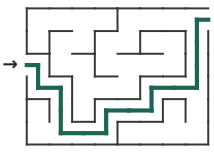

Grands nombres et calculs

Plie le bas de la feuille vers l'arrière. Déplie-le pour vérifier tes réponses.

1. Calcule.

2 456 + 3 789

8 000 − 2 745

36 × 4

84 ÷ 7

2. Résous.

Une école possède 1 250 livres et en reçoit 375. Combien en a-t-elle ?

On répartit 96 feuilles également dans 8 pochettes. Combien par pochette ?

3. Mots mêlés

Entoure les mots dans ces sens → ↓ ↘ ↙

	A	B	C	D	E	F	G	H
1	Q	C	P	V	E	D	P	D
2	V	X	E	V	H	E	S	S
3	A	N	N	E	C	T	A	R
4	T	E	F	Q	R	I	Z	F
5	A	B	E	T	I	V	O	T
6	B	O	U	R	D	O	N	Z
7	A	B	E	I	L	L	E	H
8	P	É	T	A	L	E	M	I

La pollinisation

NECTAR

ABEILLE

BOURDON

PÉTALE

VENT

4. Mots croisés

Lis les indices. Une lettre par case, sans accent.

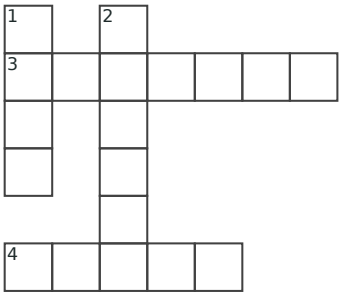

1↓ Elle fournit de l'énergie électrique et possède deux bornes différentes.

2↓ Il transforme l'énergie électrique en mouvement.

3→ Matériau qui laisse très difficilement passer le courant.

4→ Point de connexion d'un composant électrique.

5. Coloriage magique

Calcule. Colorie selon le résultat.

18+1	15+6	42÷2	42÷2	13+6
42÷2	42÷2	46÷2	18+3	42÷2
42÷2	42÷2	14+7	27−6	13+8
12+7	27−8	46÷2	38÷2	38÷2
24−5	38÷2	28−5	11+8	14+5

Code

- ☐ 19 = blanc
- ▨ 21 = bleu
- ▪ 23 = jaune

Au crayon, hachure le bleu et fais des points pour le jaune.

6. Mini-sudoku

Place 1, 2, 3 et 4 une fois par ligne, par colonne et par carré de quatre cases.

2			
4		3	2
		4	3
	4	2	

Je vérifie mes réponses

1. 6 245 ; 5 255 ; 144 ; 12.

2. 1 625 livres ; 12 feuilles.

3. Mots mêlés

Q	C	P	V	E	D	P	D
V	X	E	V	H	E	S	S
A	N	N	E	C	T	A	R
T	E	F	Q	R	I	Z	F
A	B	E	T	I	V	O	T
B	O	U	R	D	O	N	Z
A	B	E	I	L	L	E	H
P	É	T	A	L	E	M	I

4. Mots croisés

P		M				
I	S	O	L	A	N	T
L		T				
E		E				
		U				
B	O	R	N	E		

5. Champignon

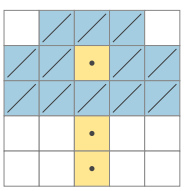

6. Sudoku

2	3	1	4
4	1	3	2
1	2	4	3
3	4	2	1

Document généré par outilspourlaclasse.fr — site indépendant de l'Éducation nationale

Enquête au musée

Plie le bas de la feuille vers l'arrière. Déplie-le pour vérifier tes réponses.

1. Déduis l'ordre.

Trois tableaux, A, B et C, sont alignés. A est à gauche de B. C est à gauche de A.

Donne leur ordre de gauche à droite.

Quel tableau est au milieu ?

2. Complète les suites.

5, 10, 20, 40, …, …

150, 140, 130, …, …

1, 4, 9, 16, …, …

3. Mots mêlés

Entoure les mots dans ces sens → ↓ ↘ ↙

	A	B	C	D	E	F	G	H
1	F	T	D	O	U	B	L	E
2	F	T	R	I	L	J	V	J
3	A	S	E	I	U	Y	S	V
4	C	M	O	R	P	W	D	H
5	T	R	S	M	M	L	T	D
6	E	V	U	D	M	E	E	R
7	U	J	T	W	L	E	W	Z
8	R	Q	T	K	S	S	B	W

Les mots des quatre opérations

FACTEUR

TERME

DOUBLE

TRIPLE

SOMME

4. Mots croisés

Lis les indices. Une lettre par case, sans accent.



1↓ Un groupe de mille unités forme un … .

2→ Dans 483, quel est le rang du chiffre 3 ? Réponds au singulier.

3→ Dix dizaines en forment une. Dans 483, c'est le rang du chiffre 4.

4→ 472 est un … à trois chiffres.

5. Coloriage magique

Calcule. Colorie selon le résultat.

23−1	2×11	28−8	44÷2	19+3
18+4	44÷2	31−7	19+3	44÷2
2×10	27−5	48÷2	2×11	12+8
2×11	30−8	16+8	44÷2	18+4
23−1	40÷2	40÷2	18+2	2×11

Code

- 20 = blanc
- 22 = bleu
- 24 = jaune

Au crayon, hachure le bleu et fais des points pour le jaune.

6. Labyrinthe

Entre par la gauche. Sors à droite sans traverser un mur.

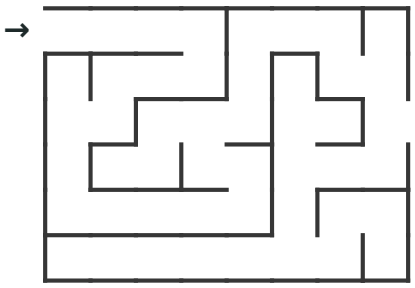

Je vérifie mes réponses

1. C, A, B ; A.

2. 80, 160 ; 120, 110 ; 25, 36 (carrés successifs).

3. Mots mêlés



4. Mots croisés



5. Papillon

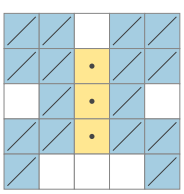

6. Chemin



Inventer une île

Plie le bas de la feuille vers l'arrière. Déplie-le pour vérifier tes réponses.

1. Dessine une île imaginaire vue du dessus.

Place une rivière, un pont sur la rivière, une forêt et un village. Écris le nom de chaque élément.

2. Décris ton île en deux phrases.

Indique où se trouve le village et comment traverser la rivière.

3. Mots mêlés

Entoure les mots dans ces sens → ↓ ↘ ↙

	A	B	C	D	E	F	G	H
1	I	X	B	D	N	I	M	K
2	R	O	B	I	N	E	T	T
3	H	Y	P	O	M	P	E	H
4	P	O	T	A	B	L	E	O
5	B	D	B	I	D	O	N	K
6	P	U	I	T	S	R	N	S
7	Y	I	E	H	P	V	N	A
8	D	Z	T	C	X	Z	M	S

Comment l'eau arrive-t-elle aux habitants ?

POMPE

BIDON

POTABLE

ROBINET

PUITS

4. Mots croisés

Lis les indices. Une lettre par case, sans accent.

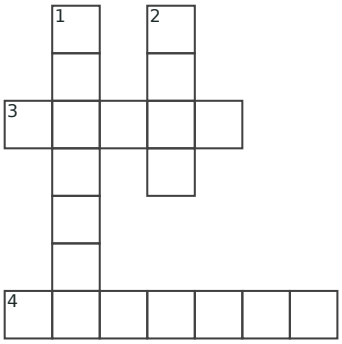

1↓ Au futur simple, conjugue « venir ». À midi, Maya … nous chercher.

2↓ Au futur simple, conjugue « aller ». Samedi prochain, j'… au marché.

3→ Au futur simple, conjugue « faire ». Demain, tu … le premier dessin.

4→ Au futur simple, conjugue « bâtir ». Sur ce terrain, vous … une cabane.

5. Coloriage magique

Calcule. Colorie selon le résultat.

42÷2	19+4	30−7	21+2	42÷2
13+8	20+3	24−3	24−1	42÷2
42÷2	26−3	22+1	15+8	42÷2
24−3	42÷2	31−6	42÷2	26−5
22−1	42÷2	19+6	18+7	15+6

Code

- 21 = blanc
- 23 = bleu
- 25 = jaune

Au crayon, hachure le bleu et fais des points pour le jaune.

6. Mini-sudoku

Place 1, 2, 3 et 4 une fois par ligne, par colonne et par carré de quatre cases.

4	1		2
	3		
	4	2	
1		4	

Je vérifie mes réponses

1. Je vois la rivière, le pont, la forêt et le village. Chaque élément est nommé.

2. Je vois deux phrases : une situe le village, l'autre indique de passer par le pont.

3. Mots mêlés

I	X	B	D	N	I	M	K
R	O	B	I	N	E	T	T
H	Y	P	O	M	P	E	H
P	O	T	A	B	L	E	O
B	D	B	I	D	O	N	K
P	U	I	T	S	R	N	S
Y	I	E	H	P	V	N	A
D	Z	T	C	X	Z	M	S

4. Mots croisés

	V			I		
	I			R		
F	E	R	A	S		
	N			I		
	D					
	R					
B	A	T	I	R	E	Z

5. Clé

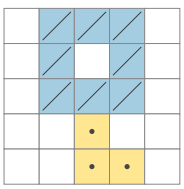

6. Sudoku

4	1	3	2
2	3	1	4
3	4	2	1
1	2	4	3

Un message dans la neige

Plie le bas de la feuille vers l'arrière. Déplie-le pour vérifier tes réponses.

1. Lis puis réponds.

Au matin, la neige recouvre la cour. Lila observe de petites traces qui mènent du portail à la haie. Un merle s'envole soudain du buisson.

Où vont les traces ?

Quel animal s'envole ?

Pourquoi Lila voit-elle les traces ?

2. Écris à l'imparfait avec « autrefois ».

Le merle cherche des graines.

Les enfants observent les traces.

3. Mots mêlés

Entoure les mots dans ces sens → ↓ ↘ ↙

	A	B	C	D	E	F	G	H
1	F	E	R	A	S	H	U	B
2	P	V	C	E	O	A	Â	F
3	S	H	E	I	Q	T	Q	N
4	F	X	R	R	I	Z	P	P
5	D	A	A	R	R	Q	Â	G
6	I	J	E	H	J	O	W	U
7	X	Z	V	G	Z	D	N	C
8	U	P	D	I	R	A	S	T

Le futur simple

BÂTIREZ

DIRAS

VERRONT

IRAI

FERAS

4. Mots croisés

Lis les indices. Une lettre par case, sans accent.



1↓ Insecte social dont certaines espèces produisent du miel.

2↓ Organe de la fleur auquel appartiennent le stigmate et l'ovaire.

3→ Insecte pollinisateur trapu et très velu qui vit en petites colonies.

4→ Partie du pistil qui reçoit les grains au moment de la pollinisation.

5. Coloriage magique

Calcule. Colorie selon le résultat.

52÷2	2×12	48÷2	2×12	22+2
18+8	18+6	2×12	27−3	25−1
23+3	44÷2	2×11	24−2	17+5
34−8	44÷2	20+2	20+2	44÷2
24+2	16+6	26−4	26−4	20+2

Code

- 22 = blanc
- 24 = bleu
- 26 = jaune

Au crayon, hachure le bleu et fais des points pour le jaune.

6. Labyrinthe

Entre par la gauche. Sors à droite sans traverser un mur.

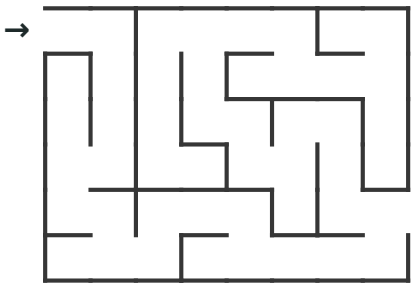

Je vérifie mes réponses

1. Du portail à la haie ; un merle ; la neige recouvre la cour.

2. Autrefois, le merle cherchait des graines. Autrefois, les enfants observaient les traces.

3. Mots mêlés



4. Mots croisés



5. Drapeau

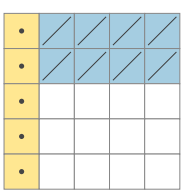

6. Chemin

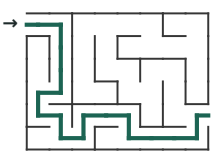

Document généré par outilspourlaclasse.fr — site indépendant de l'Éducation nationale

Multiplications et mesures

Plie le bas de la feuille vers l'arrière. Déplie-le pour vérifier tes réponses.

1. Calcule.

47 × 6

125 × 8

6 300 − 1 478

735 ÷ 5

2. Résous.

Un coureur parcourt 3 tours de 450 m. Quelle distance parcourt-il ?

Une corde de 2 m est coupée en 4 morceaux égaux. Quelle longueur en cm mesure chaque morceau ?

3. Mots mêlés

Entoure les mots dans ces sens → ↓ ↘ ↙

	A	B	C	D	E	F	G	H
1	K	S	B	G	S	G	X	V
2	T	É	R	F	O	C	O	J
3	T	C	Q	X	M	U	B	X
4	C	A	F	U	M	H	T	K
5	A	N	P	A	E	O	U	C
6	L	T	M	I	T	R	S	N
7	É	E	J	G	N	K	R	G
8	Y	S	U	U	R	S	H	E

Comparer les angles et les droites

ÉQUERRE

SÉCANTES

SOMMET

AIGU

OBTUS

4. Mots croisés

Lis les indices. Une lettre par case, sans accent.

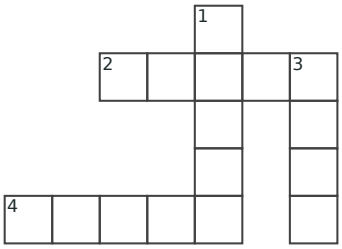

1↓ Mot anglais pour « papier ».

2→ Mot anglais pour « tableau », la surface où écrit le professeur.

3↓ Mot anglais pour « bureau », le meuble où l'on travaille.

4→ En anglais, le siège sur lequel on s'assoit en classe.

5. Coloriage magique

Calcule. Colorie selon le résultat.

11+7	36÷2	2×10	15+3	2×9
2×9	14+4	25−3	2×9	36÷2
36÷2	2×10	22−2	26−6	2×9
36÷2	16+4	18+2	19+1	12+6
22−4	40÷2	40÷2	2×10	2×9

Code

- ☐ 18 = blanc
- ▨ 20 = bleu
- ▪ 22 = jaune

Au crayon, hachure le bleu et fais des points pour le jaune.

6. Mini-sudoku

Place 1, 2, 3 et 4 une fois par ligne, par colonne et par carré de quatre cases.

1		3	2
			4
	1		
4		2	

Je vérifie mes réponses

1. 282 ; 1 000 ; 4 822 ; 147.

2. 1 350 m ; 50 cm.

3. Mots mêlés



4. Mots croisés



5. Bougie

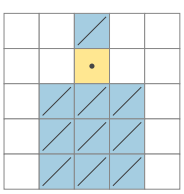

6. Sudoku

1	4	3	2
3	2	1	4
2	1	4	3
4	3	2	1

Document généré par outilspourlaclasse.fr — site indépendant de l'Éducation nationale

Les places du spectacle

Plie le bas de la feuille vers l'arrière. Déplie-le pour vérifier tes réponses.

1. Détermine les places.

Dans une rangée de trois sièges, Alice est à gauche de Bilal. Chloé est à droite de Bilal.

Qui est au milieu ?

Donne l'ordre de gauche à droite.

2. Cherche tous les choix.

Un menu comprend un plat (riz ou pâtes) et un fruit (pomme, poire ou banane).

Combien de menus différents ?

Écris-les tous.

3. Mots mêlés

Entoure les mots dans ces sens → ↓ ↘ ↙

	A	B	C	D	E	F	G	H
1	M	A	G	M	A	V	X	T
2	B	A	S	A	L	T	E	U
3	L	B	C	K	V	É	M	L
4	V	P	Q	O	E	B	J	A
5	M	Y	Y	P	U	V	U	V
6	X	Z	M	A	Q	L	K	E
7	C	H	E	M	I	N	É	E
8	V	É	B	W	C	H	G	E

Les volcans

CHEMINÉE

COULÉE

BASALTE

MAGMA

LAVE

4. Mots croisés

Lis les indices. Une lettre par case, sans accent.

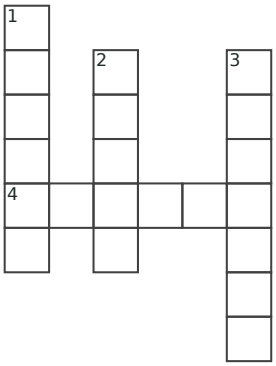

1↓ À l'imparfait, conjugue « voir ». Du balcon, vous … tout le village.

2↓ À l'imparfait, conjugue « avoir ». Mon grand-père … deux vélos.

3↓ À l'imparfait, conjugue « faire ». Chaque soir, Inès … son sac.

4→ À l'imparfait, conjugue « être ». À cette époque, nous … voisins.

5. Coloriage magique

Calcule. Colorie selon le résultat.

20−1	12+7	19+2	38÷2	38÷2
17+2	15+6	16+5	14+7	38÷2
16+5	16+5	42÷2	17+4	42÷2
16+3	16+3	16+7	38÷2	38÷2
16+3	16+7	21+2	14+5	11+8

Code

- 19 = blanc
- 21 = bleu
- 23 = jaune

Au crayon, hachure le bleu et fais des points pour le jaune.

6. Labyrinthe

Entre par la gauche. Sors à droite sans traverser un mur.

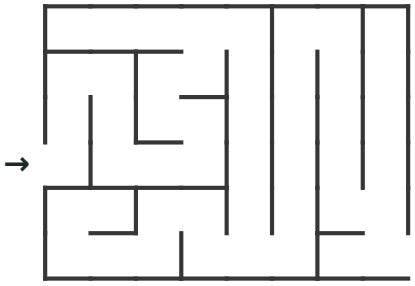

Je vérifie mes réponses

1. Bilal ; Alice, Bilal, Chloé.

2. 6 : riz-pomme, riz-poire, riz-banane, pâtes-pomme, pâtes-poire, pâtes-banane.

3. Mots mêlés



4. Mots croisés



5. Parapluie

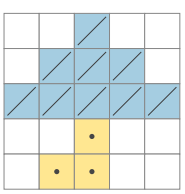

6. Chemin

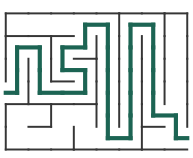

Le cycle de l’eau

Plie le bas de la feuille vers l’arrière. Déplie-le pour vérifier tes réponses.

1. Lis puis réponds.

Sous l’effet de la chaleur, une partie de l’eau liquide s’évapore. En altitude, la vapeur d’eau se refroidit : des gouttelettes se forment et constituent les nuages. Elles peuvent ensuite tomber sous forme de pluie.

Que devient une partie de l’eau chauffée ?

Que se forme-t-il quand la vapeur se refroidit ?

Que peut-il tomber des nuages ?

2. Dessine le trajet de l’eau.

Dessine une étendue d’eau et un nuage. Relie-les par une flèche montante « évaporation » et une flèche descendante « pluie ».

3. Mots mêlés

Entoure les mots dans ces sens → ↓ ↘ ↙

	A	B	C	D	E	F	G	H
1	Z	D	F	T	I	E	R	S
2	U	I	R	L	Y	U	A	A
3	U	X	A	E	C	Y	A	S
4	O	I	C	O	È	È	M	A
5	F	È	T	U	N	I	T	É
6	F	M	I	E	A	T	W	X
7	L	E	O	D	E	M	I	C
8	L	D	N	O	F	Y	E	F

Lire les fractions

DIXIÈME

FRACTION

UNITÉ

DEMI

TIERS

4. Mots croisés

Lis les indices. Une lettre par case, sans accent.

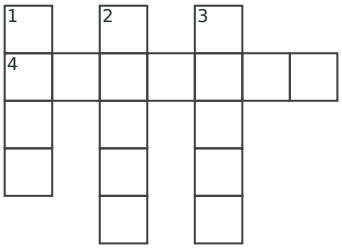

1↓ Elle fournit de l’énergie électrique et possède deux bornes différentes.

2↓ Point de connexion d’un composant électrique.

3↓ Composant qui émet de la lumière lorsqu’un courant adapté le traverse.

4→ Matériau qui laisse très difficilement passer le courant.

5. Coloriage magique

Calcule. Colorie selon le résultat.

2×10	21−1	15+7	2×10	40÷2
40÷2	2×11	26−4	44÷2	22−2
14+8	18+2	2×11	28−8	2×11
28−8	19+1	2×12	28−8	24−4
2×10	18+2	48÷2	14+6	27−7

Code

- ☐ 20 = blanc
- ⧸ 22 = bleu
- · 24 = jaune

Au crayon, hachure le bleu et fais des points pour le jaune.

6. Mini-sudoku

Place 1, 2, 3 et 4 une fois par ligne, par colonne et par carré de quatre cases.

4	1		2
		4	3
	4	2	

Je vérifie mes réponses

1. Elle s’évapore en vapeur d’eau ; des gouttelettes formant des nuages ; de la pluie.

2. Je vois eau → évaporation → nuage, puis nuage → pluie → eau.

3. Mots mêlés

Z	D	F	T	I	E	R	S
U	I	R	L	Y	U	A	A
U	X	A	E	C	Y	A	S
O	I	C	O	È	È	M	A
F	È	T	U	N	I	T	É
F	M	I	E	A	T	W	X
L	E	O	D	E	M	I	C
L	D	N	O	F	Y	E	F

4. Mots croisés

P		B		L		
I	S	O	L	A	N	T
L		R		M		
E		N		P		
		E		E		

5. Flèche

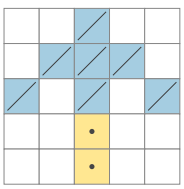

6. Sudoku

4	1	3	2
2	3	1	4
1	2	4	3
3	4	2	1

Document généré par outilspourlaclasse.fr — site indépendant de l'Éducation nationale

Le carnet du phare

Plie le bas de la feuille vers l'arrière. Déplie-le pour vérifier tes réponses.

1. Lis puis réponds.

Chaque soir, la gardienne allume le phare. Un soir de brouillard, elle aperçoit une barque immobile près des rochers. Elle prévient aussitôt les secours.

Quand allume-t-elle le phare ?

Pourquoi la barque risque-t-elle un accident ?

Que fait la gardienne ?

2. Complète avec ces homophones.

Choisis : son / sont ; ces / ses.

Les marins … prudents.

Elle prend … carnet.

Elle observe … rochers là-bas.

La gardienne appelle … collègues.

3. Mots mêlés

Entoure les mots dans ces sens → ↓ ↘ ↙

	A	B	C	D	E	F	G	H
1	S	M	P	J	W	C	C	V
2	G	W	R	A	L	E	H	N
3	G	I	O	D	R	E	A	Q
4	C	B	B	T	R	A	S	U
5	G	M	A	R	E	B	A	A
6	Z	I	B	O	M	F	R	T
7	N	E	L	I	P	L	D	R
8	A	C	E	S	C	K	Y	E

Quelles sont les chances ?

TROIS
QUATRE
CERTAIN
PROBABLE
HASARD

4. Mots croisés

Lis les indices. Une lettre par case, sans accent.

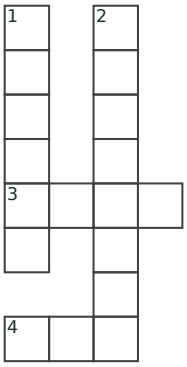

1↓ Endroit où un cours d'eau prend naissance.

2↓ Cours d'eau qui se jette dans un autre.

3→ Période où le niveau et le débit d'un cours d'eau augmentent.

4→ Espace dans lequel s'écoule habituellement l'eau d'une rivière.

5. Coloriage magique

Calcule. Colorie selon le résultat.

42÷2	25−4	18+3	15+6	42÷2
22+1	46÷2	29−6	28−5	16+7
27−4	19+6	46÷2	19+6	20+3
21+2	18+5	19+6	19+4	30−7
46÷2	18+5	15+8	19+4	28−5

Code

- 21 = blanc
- 23 = bleu
- 25 = jaune

Au crayon, hachure le bleu et fais des points pour le jaune.

6. Labyrinthe

Entre par la gauche. Sors à droite sans traverser un mur.

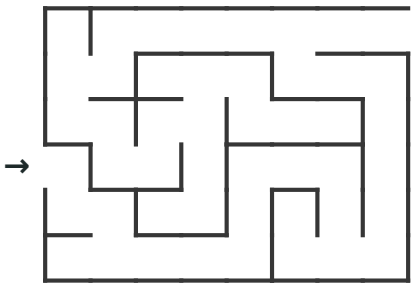

Je vérifie mes réponses

1. Chaque soir ; elle est près des rochers dans le brouillard ; elle prévient les secours.

2. sont ; son ; ces ; ses.

3. Mots mêlés



4. Mots croisés



5. Enveloppe

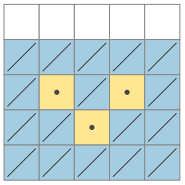

6. Chemin

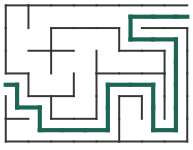

Fractions et problèmes

Plie le bas de la feuille vers l'arrière. Déplie-le pour vérifier tes réponses.

1. Calcule.

3 476 + 2 958

9 000 − 4 356

24 × 13

144 ÷ 12

2. Résous.

Une tablette est partagée en 8 parts égales. On mange 3 parts. Quelle fraction reste-t-il ?

Un trajet commence à 13 h 20 et dure 45 min. À quelle heure finit-il ?

3. Mots mêlés

Entoure les mots dans ces sens → ↓ ↘ ↙

	A	B	C	D	E	F	G	H
1	S	O	U	P	L	E	M	V
2	T	N	R	I	G	I	D	E
3	I	I	A	K	G	B	V	Y
4	M	Y	S	T	X	K	S	E
5	G	O	S	S	U	M	A	M
6	P	P	T	O	A	R	U	H
7	L	M	U	I	S	G	E	X
8	N	G	P	P	F	W	E	L

Choisir un tissu pour son usage

MOTIF

TISSAGE

SOUPLE

RIGIDE

NATUREL

4. Mots croisés

Lis les indices. Une lettre par case, sans accent.

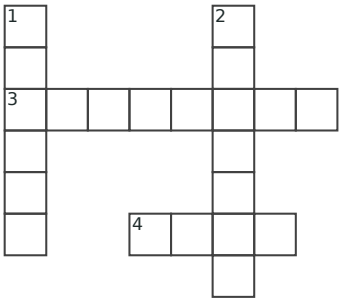

1↓ Creux allongé entre des reliefs, souvent parcouru par une rivière.

2↓ Cours d'eau de montagne au courant rapide.

3→ Zone de contact entre la terre et la mer.

4→ Amas de sable formé par le vent.

5. Coloriage magique

Calcule. Colorie selon le résultat.

44÷2	28−6	30−8	52÷2	44÷2
14+8	48÷2	32−8	48÷2	2×11
2×12	30−6	18+6	2×12	27−3
48÷2	2×12	21+3	48÷2	48÷2
2×11	16+8	48÷2	2×12	20+2

Code

- 22 = blanc
- 24 = bleu
- 26 = jaune

Au crayon, hachure le bleu et fais des points pour le jaune.

6. Mini-sudoku

Place 1, 2, 3 et 4 une fois par ligne, par colonne et par carré de quatre cases.

2	3		
		4	2
	2	3	1

Je vérifie mes réponses

1. 6 434 ; 4 644 ; 312 ; 12.

2. 5/8 ; 14 h 05.

3. Mots mêlés



4. Mots croisés



5. Pomme

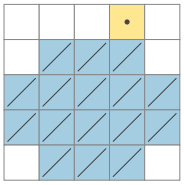

6. Sudoku

1	4	2	3
2	3	1	4
3	1	4	2
4	2	3	1

Document généré par outilspourlaclasse.fr — site indépendant de l'Éducation nationale

Un nombre secret

Plie le bas de la feuille vers l'arrière. Déplie-le pour vérifier tes réponses.

1. Trouve le nombre.

Il a trois chiffres. Le chiffre des centaines est 4. Celui des dizaines est la moitié de 8. La somme des trois chiffres est 13.

Quel est le nombre ?

Explique comment trouver le chiffre des unités.

2. Complète et explique la règle.

2, 5, 8, 11, …, …

1, 2, 4, 8, …, …

3. Mots mêlés

Entoure les mots dans ces sens → ↓ ↘ ↙

	A	B	C	D	E	F	G	H
1	T	E	C	C	D	U	Q	C
2	A	N	H	O	Q	Q	V	L
3	B	O	I	R	A	N	G	A
4	K	M	F	C	E	S	U	S
5	Z	B	F	K	B	N	A	S
6	W	R	R	V	I	G	L	E
7	W	E	E	T	S	W	G	E
8	A	U	É	S	K	X	D	U

Les mots des grands nombres entiers

CLASSE

RANG

CHIFFRE

NOMBRE

UNITÉ

4. Mots croisés

Lis les indices. Une lettre par case, sans accent.

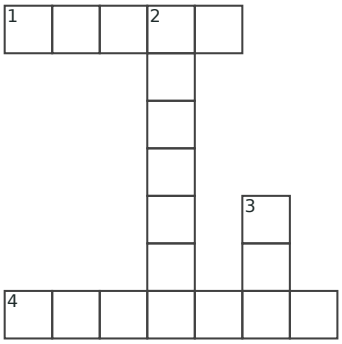

1→ Parcelle de terre cultivée où l'agriculteur sème puis récolte le blé.

2↓ Professionnel qui transforme les grains de céréales en farine au moulin.

3↓ Partie de la plante de blé qui porte les grains au sommet de la tige.

4→ Pièce de travail où le boulanger prépare la pâte et cuit le pain.

5. Coloriage magique

Calcule. Colorie selon le résultat.

36÷2	36÷2	2×9	15+3	36÷2
20−2	12+6	40÷2	2×11	20−2
17+1	40÷2	16+4	40÷2	25−3
16+4	2×10	40÷2	26−6	2×10
23−5	17+3	2×10	2×10	2×9

Code

- 18 = blanc
- 20 = bleu
- 22 = jaune

Au crayon, hachure le bleu et fais des points pour le jaune.

6. Labyrinthe

Entre par la gauche. Sors à droite sans traverser un mur.

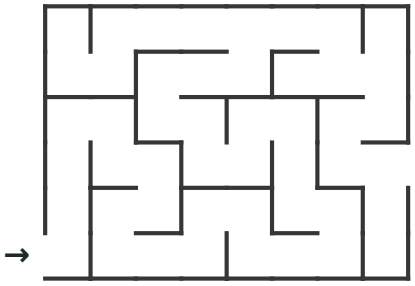

Je vérifie mes réponses

1. 445 ; 13 − 4 − 4 = 5.

2. 14, 17 : ajouter 3 ; 16, 32 : doubler.

3. Mots mêlés



4. Mots croisés



5. Bateau

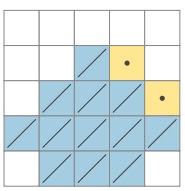

6. Chemin



Le cadran solaire imaginé

Plie le bas de la feuille vers l'arrière. Déplie-le pour vérifier tes réponses.

1. Lis puis réponds.

Au cours de la journée, le Soleil semble se déplacer dans le ciel. L'ombre d'un bâton immobile change alors de direction et de longueur.

Que peut-on observer sur l'ombre pendant la journée ?

Le bâton doit-il bouger pour que son ombre change ?

2. Dessine deux moments de la journée.

Dessine deux fois un bâton et son ombre. Place le Soleil à gauche dans le premier dessin, à droite dans le second.

3. Mots mêlés

Entoure les mots dans ces sens → ↓ ↘ ↙

	A	B	C	D	E	F	G	H
1	F	V	H	G	R	G	F	O
2	W	I	R	O	O	G	B	E
3	Z	T	O	T	M	V	E	A
4	R	R	S	H	A	F	R	J
5	T	A	A	I	N	V	C	A
6	B	I	C	Q	W	G	E	L
7	T	L	E	U	Z	U	A	U
8	J	S	B	E	L	F	U	T

Observer une église romane ou gothique

BERCEAU

ROMAN

GOTHIQUE

VITRAIL

ROSACE

4. Mots croisés

Lis les indices. Une lettre par case, sans accent.

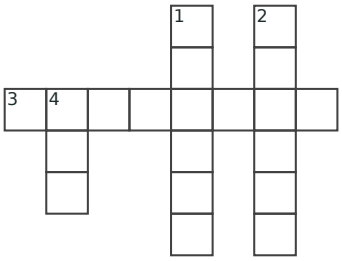

1↓ Tour maîtresse d'un château médiéval.

2↓ Fossés qui entourent un château et peuvent être remplis d'eau.

3→ Au Moyen Âge, il exerce son autorité sur une seigneurie.

4↓ Bouclier que l'on représentait souvent avec des armoiries.

5. Coloriage magique

Calcule. Colorie selon le résultat.

38÷2	14+7	23−4	42÷2	38÷2
17+4	17+4	20+1	20+1	14+7
26−5	42÷2	18+5	42÷2	20+1
23−4	27−6	14+7	16+5	15+4
18+1	38÷2	17+4	24−5	15+4

Code

- 19 = blanc
- 21 = bleu
- 23 = jaune

Au crayon, hachure le bleu et fais des points pour le jaune.

6. Mini-sudoku

Place 1, 2, 3 et 4 une fois par ligne, par colonne et par carré de quatre cases.

1			3
		4	1
		3	4

Je vérifie mes réponses

1. Sa direction et sa longueur changent ; non.

2. Je vois deux bâtons. L'ombre est à droite si le Soleil est à gauche, et inversement.

3. Mots mêlés

F	V	H	G	R	G	F	O
W	I	R	O	O	G	B	E
Z	T	O	T	M	V	E	A
R	R	S	H	A	F	R	J
T	A	A	I	N	V	C	A
B	I	C	Q	W	G	E	L
T	L	E	U	Z	U	A	U
J	S	B	E	L	F	U	T

4. Mots croisés

			D		D			
			O		O			
S	E	I	G	N	E	U	R	
	C			J		V		
	U			O		E		
				N		S		

5. Cœur

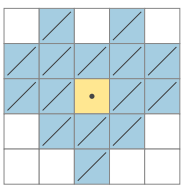

6. Sudoku

1	4	2	3
3	2	4	1
4	3	1	2
2	1	3	4

Document généré par outilspourlaclasse.fr — site indépendant de l'Éducation nationale

Le pont de papier

Plie le bas de la feuille vers l'arrière. Déplie-le pour vérifier tes réponses.

1. Lis puis réponds.

Pour franchir le ruisseau imaginaire, les enfants construisent un pont de papier. Leur premier pont s'affaisse. Ils plient une nouvelle feuille en accordéon : cette fois, le pont résiste mieux.

Pourquoi le premier pont ne convient-il pas ?

Comment les enfants modifient-ils la feuille ?

Quel résultat obtiennent-ils ?

2. Réécris au futur avec « demain ».

Les enfants construisent un pont.

Il résiste mieux.

3. Mots mêlés

Entoure les mots dans ces sens → ↓ ↘ ↙

	A	B	C	D	E	F	G	H
1	C	P	D	P	I	A	N	O
2	Y	N	I	H	A	R	P	E
3	M	H	F	V	O	L	J	B
4	B	I	L	I	Û	A	J	J
5	A	R	Û	O	T	L	T	X
6	L	A	T	L	T	I	Q	F
7	E	E	E	O	W	F	W	T
8	S	M	Y	N	F	V	A	D

Les instruments de musique

CYMBALES

VIOLON

FLÛTE

HARPE

PIANO

4. Mots croisés

Lis les indices. Une lettre par case, sans accent.



1↓ Force de l'air sur les ailes qui soutient un avion en vol horizontal.

2↓ Force exercée vers l'avant par les moteurs qui propulsent un avion.

3→ Partie centrale et allongée d'un avion à laquelle sont fixées les ailes.

4→ Pièce tournante à plusieurs pales qui peut propulser un petit avion.

5. Coloriage magique

Calcule. Colorie selon le résultat.

14+6	28−8	2×11	16+4	15+5
2×10	44÷2	21+1	20+2	27−7
14+8	20+2	2×11	30−8	14+8
40÷2	44÷2	19+5	23−1	40÷2
2×10	2×11	16+8	2×11	19+1

Code

- 20 = blanc
- 22 = bleu
- 24 = jaune

Au crayon, hachure le bleu et fais des points pour le jaune.

6. Labyrinthe

Entre par la gauche. Sors à droite sans traverser un mur.

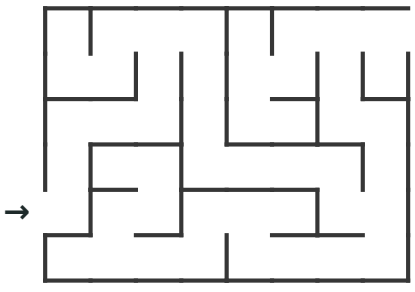

Je vérifie mes réponses

1. Il s'affaisse ; ils la plient en accordéon ; le nouveau pont résiste mieux.

2. Demain, les enfants construiront un pont. Demain, il résistera mieux.

3. Mots mêlés

C	P	D	P	I	A	N	O
Y	N	I	H	A	R	P	E
M	H	F	V	O	L	J	B
B	I	L	I	Û	A	J	J
A	R	Û	O	T	L	T	X
L	A	T	L	T	I	Q	F
E	E	E	O	W	F	W	T
S	M	Y	N	F	V	A	D

4. Mots croisés



5. Maison

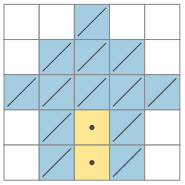

6. Chemin

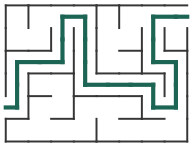

Décimaux et périmètre

Plie le bas de la feuille vers l'arrière. Déplie-le pour vérifier tes réponses.

1. Calcule.

6 708 + 1 945

7 000 − 2 867

36 × 25

3,5 + 2,4

2. Résous.

Un rectangle mesure 12 cm de long et 5 cm de large. Quel est son périmètre ?

Une bouteille contient 1,5 L. On en verse 0,5 L dans un verre. Combien reste-t-il dans la bouteille ?

3. Mots mêlés

Entoure les mots dans ces sens → ↓ ↘ ↙

	A	B	C	D	E	F	G	H
1	N	H	O	G	H	Y	F	E
2	Ê	É	Q	U	Ê	T	E	É
3	H	R	Ê	M	H	S	Ï	P
4	C	O	N	T	E	D	Q	R
5	O	Ï	Z	J	O	R	Ï	E
6	P	N	S	G	T	R	Y	U
7	U	E	R	S	S	L	R	V
8	U	E	É	R	L	R	A	E

Le conte merveilleux

OGRE

CONTE

HÉROÏNE

QUÊTE

ÉPREUVE

4. Mots croisés

Lis les indices. Une lettre par case, sans accent.

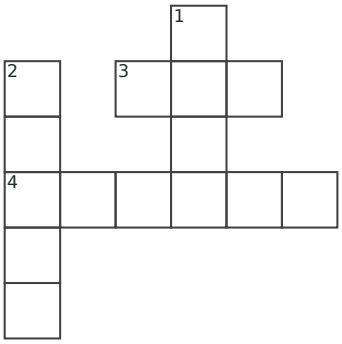

1↓ Elle fournit de l'énergie électrique et possède deux bornes différentes.

2↓ Composant qui émet de la lumière lorsqu'un courant adapté le traverse.

3→ On utilise son cœur métallique pour relier deux composants du circuit.

4→ Il transforme l'énergie électrique en mouvement.

5. Coloriage magique

Calcule. Colorie selon le résultat.

27−6	15+6	46÷2	28−7	42÷2
29−8	27−4	19+4	22+1	25−4
28−5	29−6	15+8	19+4	46÷2
20+1	16+5	50÷2	13+8	23−2
20+1	16+5	19+6	15+6	23−2

Code

- 21 = blanc
- 23 = bleu
- 25 = jaune

Au crayon, hachure le bleu et fais des points pour le jaune.

6. Mini-sudoku

Place 1, 2, 3 et 4 une fois par ligne, par colonne et par carré de quatre cases.

1			3
	4		
		3	2
2			

Je vérifie mes réponses

1. 8 653 ; 4 133 ; 900 ; 5,9.

2. 34 cm ; 1 L.

3. Mots mêlés



4. Mots croisés



5. Arbre

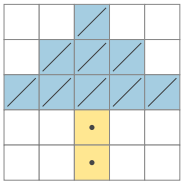

6. Sudoku

1	2	4	3
3	4	2	1
4	1	3	2
2	3	1	4

Document généré par outilspourlaclasse.fr — site indépendant de l'Éducation nationale

Carré logique

Plie le bas de la feuille vers l'arrière. Déplie-le pour vérifier tes réponses.

1. Écris le nombre manquant pour chaque ligne.

Chaque ligne et chaque colonne contient une fois chacun des nombres 1, 2, 3 et 4.

Ligne 1 : 1 | … | 3 | 4

Ligne 2 : 2 | … | 4 | 1

Ligne 3 : 3 | … | 1 | 2

Ligne 4 : 4 | … | 2 | 3

2. Trouve toutes les possibilités.

On fabrique un nombre à deux chiffres distincts avec 2, 4 et 6.

Écris tous les nombres possibles.

Combien y en a-t-il ?

3. Mots mêlés

Entoure les mots dans ces sens → ↓ ↘ ↙

	A	B	C	D	E	F	G	H
1	I	L	L	U	S	I	O	N
2	C	J	M	C	É	L	B	É
3	C	É	É	E	O	A	X	X
4	R	O	M	R	I	N	W	J
5	Â	T	O	V	C	G	É	U
6	N	B	I	E	V	A	M	I
7	E	E	R	A	S	G	Q	H
8	O	O	E	U	C	E	K	T

Le cerveau et les sens

CERVEAU

CRÂNE

MÉMOIRE

ILLUSION

LANGAGE

4. Mots croisés

Lis les indices. Une lettre par case, sans accent.



1↓ Grand virage dessiné par un cours d'eau.

2→ Cours d'eau qui se jette dans un autre.

3→ Côté d'un cours d'eau d'où vient le courant.

3↓ Côté d'un cours d'eau vers lequel va le courant.

5. Coloriage magique

Calcule. Colorie selon le résultat.

2×11	2×11	48÷2	24−2	24−2
44÷2	25−1	2×12	44÷2	44÷2
48÷2	2×12	23+1	52÷2	2×11
52÷2	52÷2	25+1	52÷2	52÷2
24−2	29−3	2×13	30−4	19+3

Code

- 22 = blanc
- 24 = bleu
- 26 = jaune

Au crayon, hachure le bleu et fais des points pour le jaune.

6. Labyrinthe

Entre par la gauche. Sors à droite sans traverser un mur.

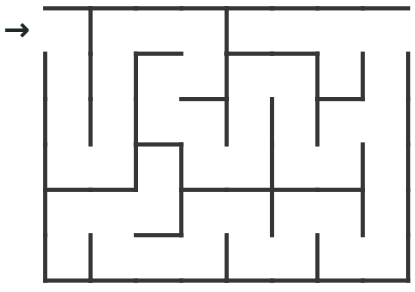

Je vérifie mes réponses

1. Ligne 1 : 2 ; ligne 2 : 3 ; ligne 3 : 4 ; ligne 4 : 1.

2. 24, 26, 42, 46, 62, 64 ; 6 nombres.

3. Mots mêlés

I	L	L	U	S	I	O	N
C	J	M	C	É	L	B	É
C	É	É	E	O	A	X	X
R	O	M	R	I	N	W	J
Â	T	O	V	C	G	É	U
N	B	I	E	V	A	M	I
E	E	R	A	S	G	Q	H
O	O	E	U	C	E	K	T

4. Mots croisés



5. Voilier

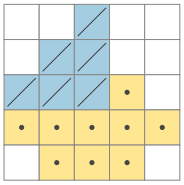

6. Chemin

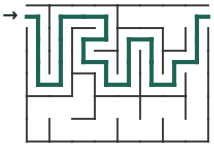

Paysage et cours d’eau

Plie le bas de la feuille vers l’arrière. Déplie-le pour vérifier tes réponses.

1. Lis puis réponds.

Une rivière coule généralement d’un terrain plus élevé vers un terrain plus bas. Plusieurs petits cours d’eau peuvent se rejoindre.

Dans quel sens coule généralement la rivière ?

Que peuvent faire plusieurs petits cours d’eau ?

2. Dessine une vallée vue du dessus.

Dessine deux petits cours d’eau qui se rejoignent. Trace des flèches vers leur rencontre, puis une flèche après leur rencontre.

3. Mots mêlés

Entoure les mots dans ces sens → ↓ ↘ ↙

	A	B	C	D	E	F	G	H
1	D	A	C	C	O	R	D	E
2	É	B	K	I	D	N	N	U
3	P	H	J	L	U	S	N	N
4	A	B	W	A	E	I	P	I
5	R	I	N	M	S	I	F	B
6	T	C	B	S	Y	X	C	Q
7	E	L	O	Z	W	V	Z	I
8	E	N	V	T	L	V	N	S

Jouer et chanter ensemble

NUANCE
DÉPART
ENSEMBLE
UNISSON
ACCORD

4. Mots croisés

Lis les indices. Une lettre par case, sans accent.

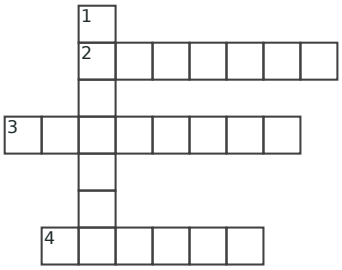

1↓ Insecte social dont certaines espèces produisent du miel.

2→ Insecte pollinisateur trapu et très velu qui vit en petites colonies.

3→ Partie du pistil qui reçoit les grains au moment de la pollinisation.

4→ Chacune des pièces souvent colorées de la corolle d’une fleur.

5. Coloriage magique

Calcule. Colorie selon le résultat.

36÷2	2×10	2×9	14+6	36÷2
40÷2	13+7	2×11	2×10	16+4
16+2	15+5	10+8	26−6	2×9
36÷2	2×9	26−4	2×9	36÷2
11+7	40÷2	2×11	11+7	26−8

Code

- 18 = blanc
- 20 = bleu
- 22 = jaune

Au crayon, hachure le bleu et fais des points pour le jaune.

6. Mini-sudoku

Place 1, 2, 3 et 4 une fois par ligne, par colonne et par carré de quatre cases.

4		2	
	2		
1		4	

Je vérifie mes réponses

1. Du terrain plus élevé vers le plus bas ; se rejoindre.

2. Je vois deux cours d’eau qui se rejoignent. Les flèches vont vers la rencontre puis s’en éloignent.

3. Mots mêlés

D	A	C	C	O	R	D	E
É	B	K	I	D	N	N	U
P	H	J	L	U	S	N	N
A	B	W	A	E	I	P	I
R	I	N	M	S	I	F	B
T	C	B	S	Y	X	C	Q
E	L	O	Z	W	V	Z	I
E	N	V	T	L	V	N	S

4. Mots croisés

		A					
	B	O	U	R	D	O	N
		E					
S	T	I	G	M	A	T	E
		L					
		L					
	P	E	T	A	L	E	

5. Fleur

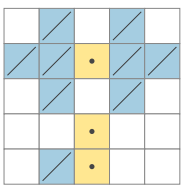

6. Sudoku

4	1	2	3
3	2	1	4
2	4	3	1
1	3	4	2

Document généré par outilspourlaclasse.fr — site indépendant de l'Éducation nationale

Le jour de la découverte

Plie le bas de la feuille vers l'arrière. Déplie-le pour vérifier tes réponses.

1. Lis puis réponds.

Après plusieurs semaines de recherche, Nour découvre une graine dans une boîte ancienne. Elle la plante et note chaque jour les changements. Au bout de dix jours, une pousse apparaît.

Que découvre Nour ?

Que fait-elle après l'avoir plantée ?

Quand la pousse apparaît-elle ?

2. Accorde les adjectifs entre parenthèses.

des graines (ancien)

une pousse (vert)

les boîtes (fermé)

un carnet (précieux)

3. Mots mêlés

Entoure les mots dans ces sens → ↓ ↘ ↙

	A	B	C	D	E	F	G	H
1	U	C	B	Q	N	D	J	C
2	N	E	Z	C	K	I	C	H
3	I	N	Y	E	N	Z	G	I
4	T	T	X	P	O	A	É	F
5	É	A	F	B	M	I	E	F
6	O	I	V	X	B	N	H	R
7	P	N	S	Q	R	E	P	E
8	O	E	S	J	E	É	B	D

Les mots des grands nombres entiers

CHIFFRE

NOMBRE

UNITÉ

DIZAINE

CENTAINE

4. Mots croisés

Lis les indices. Une lettre par case, sans accent.

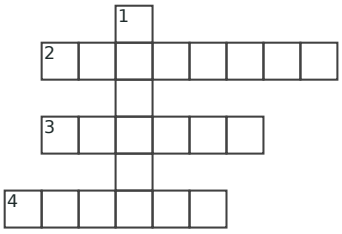

1↓ Organe de la fleur auquel appartiennent le stigmate et l'ovaire.

2→ Partie du pistil qui reçoit les grains au moment de la pollinisation.

3→ Chacune des pièces souvent colorées de la corolle d'une fleur.

4→ Ensemble des grains produits par les étamines d'une fleur.

5. Coloriage magique

Calcule. Colorie selon le résultat.

38÷2	38÷2	17+2	11+8	38÷2
20−1	19+2	13+8	38÷2	20+1
28−7	27−4	42÷2	15+6	26−5
14+5	29−8	17+4	38÷2	19+2
12+7	11+8	25−6	12+7	11+8

Code

- 19 = blanc
- 21 = bleu
- 23 = jaune

Au crayon, hachure le bleu et fais des points pour le jaune.

6. Labyrinthe

Entre par la gauche. Sors à droite sans traverser un mur.

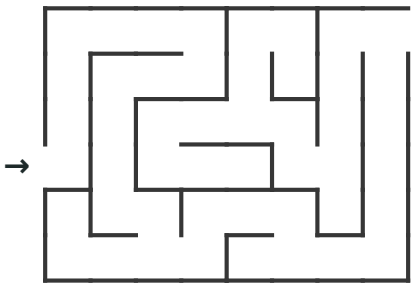

Je vérifie mes réponses

1. Une graine ; elle note chaque jour les changements ; au bout de dix jours.

2. anciennes ; verte ; fermées ; précieux.

3. Mots mêlés

U	C	B	Q	N	D	J	C
N	E	Z	C	K	I	C	H
I	N	Y	E	N	Z	G	I
T	T	X	P	O	A	É	F
É	A	F	B	M	I	E	F
O	I	V	X	B	N	H	R
P	N	S	Q	R	E	P	E
O	E	S	J	E	É	B	D

4. Mots croisés

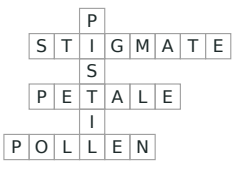

5. Poisson

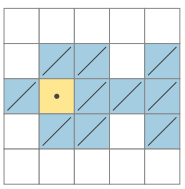

6. Chemin

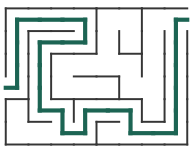

Défis de fin d'année

Plie le bas de la feuille vers l'arrière. Déplie-le pour vérifier tes réponses.

1. Calcule.

4 875 + 3 968

10 000 − 5 764

48 × 23

8,7 − 2,3

2. Résous.

Un rectangle mesure 9 cm sur 4 cm. Quelle est son aire ?

Un livre coûte 12 €. Combien coûtent 7 livres identiques ?

3. Mots mêlés

Entoure les mots dans ces sens → ↓ ↘ ↙

	A	B	C	D	E	F	G	H
1	R	G	R	K	J	V	V	T
2	O	O	S	R	F	Z	I	D
3	S	T	H	G	O	W	T	U
4	A	H	P	A	N	M	R	J
5	C	I	K	V	F	M	A	U
6	E	Q	X	O	N	X	I	N
7	W	U	P	N	J	N	L	G
8	N	E	D	V	O	Û	T	E

Observer une église romane ou gothique

ROMAN

GOTHIQUE

VITRAIL

ROSACE

VOÛTE

4. Mots croisés

Lis les indices. Une lettre par case, sans accent.



1↓ Épais mur de défense autour d'une ville ou d'un château.

2→ Fossés qui entourent un château et peuvent être remplis d'eau.

3↓ Grille que l'on abaisse pour fermer l'entrée.

4→ Ouverture entre deux parties pleines au sommet d'une muraille.

5. Coloriage magique

Calcule. Colorie selon le résultat.

17+5	13+7	40÷2	40÷2	44÷2
16+6	13+7	44÷2	40÷2	26−4
17+5	44÷2	24−2	44÷2	44÷2
14+8	48÷2	2×12	32−8	44÷2
2×10	23−3	13+7	13+7	25−5

Code

- 20 = blanc
- 22 = bleu
- 24 = jaune

Au crayon, hachure le bleu et fais des points pour le jaune.

6. Mini-sudoku

Place 1, 2, 3 et 4 une fois par ligne, par colonne et par carré de quatre cases.

	2		
1	4		
4		1	

Je vérifie mes réponses

1. 8 843 ; 4 236 ; 1 104 ; 6,4.

2. 36 cm² ; 84 €.

3. Mots mêlés

R	G	R	K	J	V	V	T
O	O	S	R	F	Z	I	D
S	T	H	G	O	W	T	U
A	H	P	A	N	M	R	J
C	I	K	V	F	M	A	U
E	Q	X	O	N	X	I	N
W	U	P	N	J	N	L	G
N	E	D	V	O	Û	T	E

4. Mots croisés

						R		
D	O	U	V	E	S			
						M		
		H				P		
C	R	E	N	E	A	U		
		R				R		
		S				T		
		E						

5. Couronne

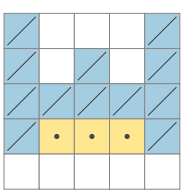

6. Sudoku

3	2	4	1
1	4	2	3
2	1	3	4
4	3	1	2

Parcours de déduction

Plie le bas de la feuille vers l'arrière. Déplie-le pour vérifier tes réponses.

1. Trouve le nombre.

Il est compris entre 200 et 300. Son chiffre des dizaines est 7. La somme de ses chiffres vaut 13.

Quel est ce nombre ?

Explique ton raisonnement.

2. Résous.

Quatre amis se placent en file. Zoé est devant Léo. Léo est devant Mia. Mia est devant Yan.

Qui est troisième ?

Donne l'ordre complet.

3. Mots mêlés

Entoure les mots dans ces sens → ↓ ↘ ↙

	A	B	C	D	E	F	G	H
1	Q	D	P	É	H	S	P	A
2	C	R	É	N	E	A	U	S
3	B	Y	J	P	R	Y	G	J
4	Z	Q	Y	U	S	S	F	C
5	O	Y	C	P	E	S	B	J
6	Q	R	E	M	P	A	R	T
7	S	E	I	G	N	E	U	R
8	D	O	U	V	E	S	X	L

Les châteaux forts

DOUVES

HERSE

REMPART

CRÉNEAU

SEIGNEUR

4. Mots croisés

Lis les indices. Une lettre par case, sans accent.

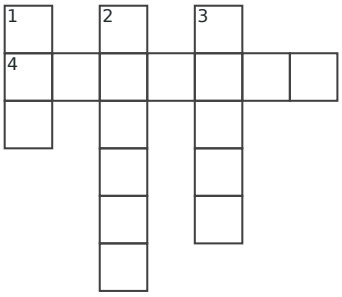

1↓ On utilise son cœur métallique pour relier deux composants du circuit.

2↓ Il transforme l'énergie électrique en mouvement.

3↓ Composant qui émet de la lumière lorsqu'un courant adapté le traverse.

4→ Matériau qui laisse très difficilement passer le courant.

5. Coloriage magique

Calcule. Colorie selon le résultat.

13+8	18+3	21+2	17+4	15+6
14+7	17+6	19+4	16+7	18+3
13+8	22+1	50÷2	25−2	42÷2
46÷2	46÷2	22+1	25−2	20+3
27−6	20+5	42÷2	17+8	17+4

Code

- 21 = blanc
- 23 = bleu
- 25 = jaune

Au crayon, hachure le bleu et fais des points pour le jaune.

6. Labyrinthe

Entre par la gauche. Sors à droite sans traverser un mur.

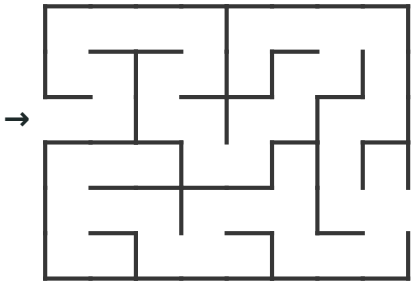

Je vérifie mes réponses

1. 274 ; 2 + 7 + 4 = 13.

2. Mia ; Zoé, Léo, Mia, Yan.

3. Mots mêlés

Q	D	P	É	H	S	P	A
C	R	É	N	E	A	U	S
B	Y	J	P	R	Y	G	J
Z	Q	Y	U	S	S	F	C
O	Y	C	P	E	S	B	J
Q	R	E	M	P	A	R	T
S	E	I	G	N	E	U	R
D	O	U	V	E	S	X	L

4. Mots croisés

F		M		L			
I	S	O	L	A	N	T	
L		T		M			
		E		P			
		U		E			
		R					

5. Fusée

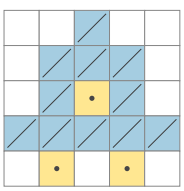

6. Chemin

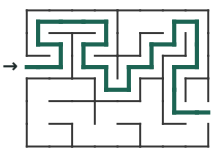

Une affiche pour la nature

Plie le bas de la feuille vers l'arrière. Déplie-le pour vérifier tes réponses.

1. Crée une affiche pour protéger la nature.

Dessine une forêt, puis écris le slogan : « Gardons la forêt propre ! »

2. Écris deux gestes pour protéger la forêt.

Choisis deux gestes : rapporter ses déchets ; jeter ses papiers ; rester sur les chemins ; casser les branches.

3. Mots mêlés

Entoure les mots dans ces sens → ↓ ↘ ↙

	A	B	C	D	E	F	G	H
1	C	O	U	R	È	V	É	È
2	J	C	D	I	S	V	D	C
3	M	A	F	H	G	O	I	N
4	O	R	Q	E	M	N	T	P
5	L	H	E	È	N	E	R	H
6	N	O	B	L	E	S	S	E
7	L	X	M	É	C	È	N	E
8	C	L	E	R	G	É	U	I

La monarchie en France

COUR

CLERGÉ

NOBLESSE

ÉDIT

MÉCÈNE

4. Mots croisés

Lis les indices. Une lettre par case, sans accent.

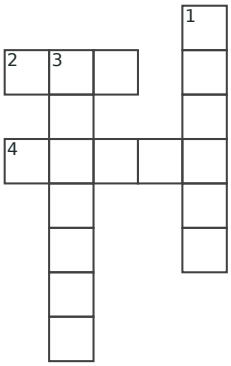

1↓ Il transforme l'énergie électrique en mouvement.

2→ On utilise son cœur métallique pour relier deux composants du circuit.

3↓ Matériau qui laisse très difficilement passer le courant.

4→ Point de connexion d'un composant électrique.

5. Coloriage magique

Calcule. Colorie selon le résultat.

26−4	2×11	44÷2	21+1	44÷2
2×12	48÷2	29−5	48÷2	21+1
2×12	52÷2	52÷2	25−1	2×12
48÷2	48÷2	48÷2	2×12	25−3
21+1	19+5	16+8	2×11	2×11

Code

- 22 = blanc
- 24 = bleu
- 26 = jaune

Au crayon, hachure le bleu et fais des points pour le jaune.

6. Mini-sudoku

Place 1, 2, 3 et 4 une fois par ligne, par colonne et par carré de quatre cases.

2		4	
3		2	
		1	

Je vérifie mes réponses

1. Je vois une forêt et le slogan « Gardons la forêt propre ! ».

2. Rapporter ses déchets ; rester sur les chemins.

3. Mots mêlés



4. Mots croisés



5. Tasse

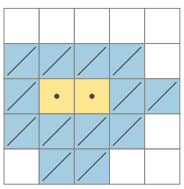

6. Sudoku

2	3	4	1
1	4	3	2
3	1	2	4
4	2	1	3