Qui possède quel objet ?

Plie le bas de la feuille vers l'arrière. Déplie-le pour vérifier tes réponses.

1. Attribue un objet différent à chaque enfant et explique.

Léa, Sami et Zoé possèdent chacun un objet : une règle, un compas ou une gomme. Léa n'a ni la règle ni la gomme. Sami n'a pas la gomme.

2. Complète en suivant la règle indiquée.

Carrés de 1, 2, 3… : 1 ; 4 ; 9 ; 16 ; … ; …

Double chaque nombre : 3 ; 6 ; 12 ; 24 ; … ; …

3. Mots mêlés

Entoure les mots dans ces sens → ↓ ↘ ↙

	A	B	C	D	E	F	G	H
1	H	X	C	U	M	X	Y	K
2	E	T	O	N	U	U	R	Q
3	N	S	M	N	L	J	E	I
4	T	R	M	Z	T	Z	S	X
5	I	E	U	R	I	G	T	P
6	E	A	N	Z	P	M	E	A
7	R	B	M	P	L	Q	B	I
8	Y	C	S	L	E	Z	W	R

Diviseurs, multiples et division

RESTE

MULTIPLE

PAIR

COMMUN

ENTIER

4. Mots croisés

Lis les indices. Une lettre par case, sans accent.



1↓ Segment qui joint deux points d'un cercle et passe par son centre.

2↓ Nom du segment qui relie le centre d'un cercle à un point de ce cercle.

3→ Un cercle de centre O passe par A. La longueur OA est la … entre O et A.

4→ Point fixe où l'on pose la pointe du compas pour tracer un cercle.

5. Coloriage magique

Calcule. Colorie selon le résultat.

18+6	18+6	32−6	2×12	2×12
29−5	2×13	2×13	52÷2	23+1
2×13	23+3	52÷2	19+7	2×13
18+6	27−3	26+2	27−3	48÷2
16+8	48÷2	26+2	32−8	48÷2

Code

- 24 = blanc
- 26 = bleu
- 28 = jaune

Au crayon, hachure le bleu et fais des points pour le jaune.

6. Labyrinthe

Entre par la gauche. Sors à droite sans traverser un mur.

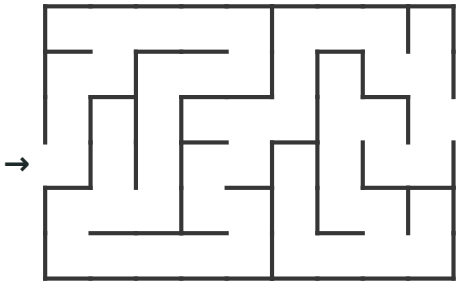

Je vérifie mes réponses

1. Léa : compas ; Sami : règle ; Zoé : gomme.

2. 25 et 36 ; 48 et 96.

3. Mots mêlés

H	X	C	U	M	X	Y	K
E	T	O	N	U	U	R	Q
N	S	M	N	L	J	E	I
T	R	M	Z	T	Z	S	X
I	E	U	R	I	G	T	P
E	A	N	Z	P	M	E	A
R	B	M	P	L	Q	B	I
Y	C	S	L	E	Z	W	R

4. Mots croisés

							D	
							I	
							A	
				R			M	
D	I	S	T	A	N	C	E	
				Y			T	
				O			R	
		C	E	N	T	R	E	

5. Arbre

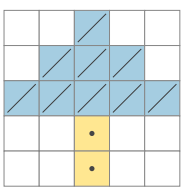

6. Chemin

