Périmètres et aires

Plie le bas de la feuille vers l'arrière. Déplie-le pour vérifier tes réponses.

1. Calcule le périmètre et l'aire de chaque rectangle.

Longueur 8 cm, largeur 3 cm.

Longueur 12 m, largeur 5 m.

2. Résous et indique tes calculs.

Un carré a un périmètre de 28 cm. Quelle est la longueur de son côté et quelle est son aire ?

Un jardin rectangulaire de 9 m sur 6 m est entouré de grillage sauf une ouverture de 2 m. Quelle longueur de grillage faut-il ?

3. Mots mêlés

Entoure les mots dans ces sens → ↓ ↘ ↙

	A	B	C	D	E	F	G	H
1	D	A	P	B	T	M	É	E
2	É	D	R	G	Y	F	N	A
3	F	V	O	M	B	E	R	P
4	I	E	N	A	L	T	K	R
5	N	R	O	B	I	W	Y	O
6	I	B	M	C	U	M	H	P
7	D	E	L	Z	K	O	J	R
8	D	E	G	S	O	D	A	E

Les classes de mots

ADVERBE

PRONOM

ARTICLE

PROPRE

DÉFINI

4. Mots croisés

Lis les indices. Une lettre par case, sans accent.



1↓ Dans 28,47, quel est le rang du chiffre 2 ? Écris ce rang au singulier.

2→ Une pièce d'un centime représente un … d'euro.

3→ Dans 2,005, quel est le rang du chiffre 5 ? Écris ce rang au singulier.

4→ Dans 24,36, quel est le rang du chiffre 4 ? Écris ce rang au singulier.

5. Coloriage magique

Calcule. Colorie selon le résultat.

22+5	54÷2	29−2	26+1	54÷2
29−2	23+6	22+7	32−5	58÷2
37−8	62÷2	58÷2	24+5	34−5
35−8	37−8	28+1	23+4	31−2
19+8	23+4	31−4	35−8	20+7

Code

- 27 = blanc
- 29 = bleu
- 31 = jaune

Au crayon, hachure le bleu et fais des points pour le jaune.

6. Mini-sudoku

Place 1, 2, 3 et 4 une fois par ligne, par colonne et par carré de quatre cases.

		4	
	4		2
1	3		

Je vérifie mes réponses

1. 22 cm et 24 cm² ; 34 m et 60 m².

2. Côté : 28 ÷ 4 = 7 cm ; aire : 49 cm². Grillage : 2 × (9 + 6) − 2 = 28 m.

3. Mots mêlés



4. Mots croisés

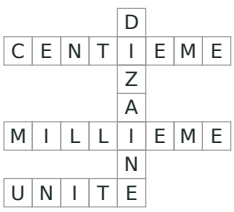

5. Poisson

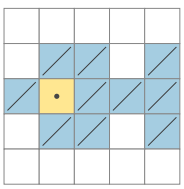

6. Sudoku

2	1	4	3
3	4	1	2
1	3	2	4
4	2	3	1

Document généré par outilspourlaclasse.fr — site indépendant de l'Éducation nationale