Calculs en voyage

Plie le bas de la feuille vers l'arrière. Déplie-le pour vérifier tes réponses.

1. Calcule.

645 + 178

902 − 357

6 × 9

72 ÷ 8

2. Résous.

Un train parcourt 235 km le matin et 164 km l'après-midi. Quelle distance au total ?

Un départ est à 9 h 30 et le trajet dure 1 h. À quelle heure arrive-t-on ?

3. Mots mêlés

Entoure les mots dans ces sens → ↓ ↘ ↙

	A	B	C	D	E	F	G	H
1	Q	W	B	J	K	M	W	W
2	D	O	D	Z	H	F	E	T
3	Q	I	R	D	U	C	F	J
4	U	I	T	R	E	N	T	E
5	I	V	I	N	G	T	X	W
6	N	K	T	E	G	S	A	J
7	Z	Q	M	G	Y	L	H	V
8	E	Z	E	W	B	T	Q	M

Mesurer des longueurs

QUINZE

VINGT

TRENTE

CENT

4. Mots croisés

Lis les indices. Une lettre par case, sans accent.

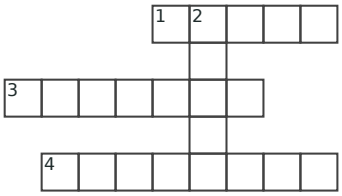

1→ Je … un jeton sur la case (placer au présent).

2↓ Je … les dés (lancer au présent).

3→ Avant la fête, nous … les chaises (placer au présent).

4→ À midi, nous … dehors (manger au présent).

5. Coloriage magique

Calcule. Colorie selon le résultat.

17−2	9+6	11+4	8+7	13+2
21−6	12+3	14+3	12+7	11+4
20−5	13+4	13+4	14+3	18+1
15+2	25−8	21−4	25−8	20−3
20−5	12+5	25−8	25−8	10+5

Code

- 15 = blanc
- 17 = bleu
- 19 = jaune

Au crayon, hachure le bleu et fais des points pour le jaune.

6. Mini-sudoku

Place 1, 2, 3 et 4 une fois par ligne, par colonne et par carré de quatre cases.

4			1
1	4	2	
2	3	1	

Je vérifie mes réponses

1. 823 ; 545 ; 54 ; 9.

2. 399 km ; 10 h 30.

3. Mots mêlés



4. Mots croisés

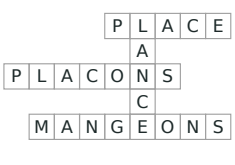

5. Bateau

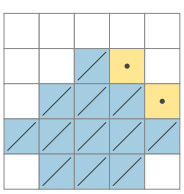

6. Sudoku

4	2	3	1
3	1	4	2
1	4	2	3
2	3	1	4

Document généré par outilspourlaclasse.fr — site indépendant de l'Éducation nationale