Calculer et mesurer

Plie le bas de la feuille vers l'arrière. Déplie-le pour vérifier tes réponses.

1. Calcule.

472 + 189

703 − 286

8 × 7

54 ÷ 6

2. Résous.

Un ruban mesure 1 m. On coupe 35 cm. Combien reste-t-il de centimètres ?

Un film commence à 14 h et dure 2 h. À quelle heure finit-il ?

3. Mots mêlés

Entoure les mots dans ces sens → ↓ ↘ ↙

	A	B	C	D	E	F	G	H
1	Y	P	L	Â	T	R	E	Q
2	K	V	A	C	C	I	N	T
3	E	R	L	N	A	A	R	Q
4	S	Û	Z	Â	U	Z	F	T
5	B	É	Q	U	I	L	L	E
6	É	Z	P	I	Q	Û	R	E
7	N	H	U	G	Â	N	D	S
8	N	L	Â	Z	Â	N	N	E

Les mots de l'hôpital

PLÂTRE

BÉQUILLE

VACCIN

PIQÛRE

4. Mots croisés

Lis les indices. Une lettre par case, sans accent.



1↓ Souvent verte en été, elle jaunit puis tombe de certains arbres.

2↓ Fin brouillard qui voile le paysage.

3→ Petit rongeur à queue touffue qui grimpe aux arbres.

4→ Petit fruit à coque dure, souvent utilisé dans la pâte à tartiner.

5. Coloriage magique

Calcule. Colorie selon le résultat.

17−1	12+4	25−7	10+6	14+2
11+5	19−1	11+7	16+2	20−4
2×9	2×9	2×9	10+8	11+7
10+6	24−8	21−1	17−1	2×8
13+3	28−8	18+2	13+3	13+3

Code

- 16 = blanc
- 18 = bleu
- 20 = jaune

Au crayon, hachure le bleu et fais des points pour le jaune.

6. Mini-sudoku

Place 1, 2, 3 et 4 une fois par ligne, par colonne et par carré de quatre cases.

	4		1
	1	3	
4		1	3
	3	4	

Je vérifie mes réponses

1. 661 ; 417 ; 56 ; 9.

2. 65 cm ; 16 h.

3. Mots mêlés

Y	P	L	Â	T	R	E	Q
K	V	A	C	C	I	N	T
E	R	L	N	A	A	R	Q
S	Û	Z	Â	U	Z	F	T
B	É	Q	U	I	L	L	E
É	Z	P	I	Q	Û	R	E
N	H	U	G	Â	N	D	S
N	L	Â	Z	Â	N	N	E

4. Mots croisés



5. Parapluie

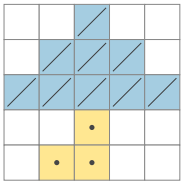

6. Sudoku

3	4	2	1
2	1	3	4
4	2	1	3
1	3	4	2

Document généré par outilspourlaclasse.fr — site indépendant de l'Éducation nationale